

Mathe mit Mieze Mia

Mia zählt jetzt bis 100

Ein Heft von _____

Die Hundertertafel

Bei welche Zahlen stehen die Bilder?

1									10
91									100

_____

_____

_____

_____

_____

_____

_____

_____

_____

_____

Eier sortieren

1

Mia muss Eier sortieren
Immer 10 Eier pro Karton.
Wie viele Kartons kann sie füllen? Male sie bunt aus!

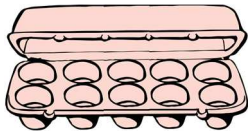

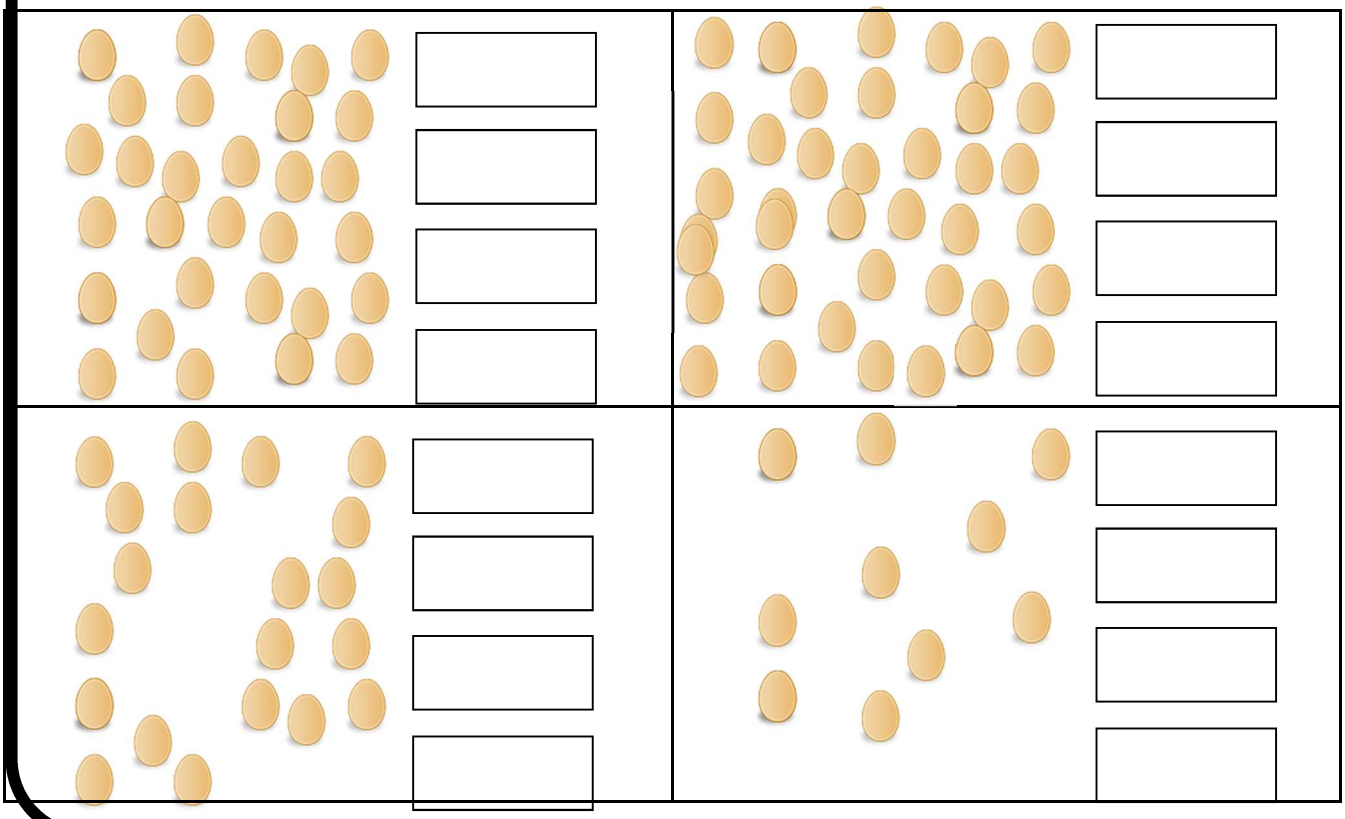

Muster in der Tafel

9

Schreibe die Zahlen in die grauen Felder!

1									10
91									100

Eier sortieren

2

Immer 10 Eier pro Karton.
Wie viele Kartons kann sie füllen?
Wie viele einzelne Eier bleiben übrig?

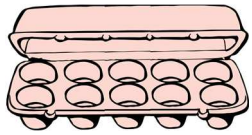



_____ Zehner und _____ Einzelne



_____ Zehner und _____ Einzelne



_____ Zehner und _____ Einzelne



_____ Zehner und _____ Einzelne

Stücke aus dem Feld

10

Diese Stücke sind aus der Hundertertafel.
Ergänze die fehlenden Zahlen!

14		
	36	

	88	
		100

23		
	45	

		39

33			
			56

	66	
		77

	2		
	32		

54		
		67

Punkte im Feld

Wie viele Punkte sind es?
Schreibe die zahl dazu!

3





_____ _____

Größer, kleiner oder gleich?

Male immer die größte Zahl farbig aus

11

7	34
43	39

52	25
16	61

75	53
74	29

54	56
45	65

19	99
89	98

Male immer die kleinste Zahl farbig aus

17	71
27	72

12	21
13	31

89	88
87	19

13	14
15	11

45	63
28	47

Ordne die Zahlen. Fange mit der kleinsten Zahl an.

27 30 32 45
26 3

Stäbe und Klötzchen

Zähle und schreibe die Zahl dazu

4



Z + E

Zahl:



Z + E

Zahl:



Z + E

Zahl:



Z + E

Zahl:



Z + E

Zahl:

Z + E

Zahl:



Z + E

Zahl:



Z + E

Zahl:



Z + E

Zahl:



Z + E

Zahl:

Größer, kleiner oder gleich?

Setze die fehlenden Zeichen ein:
<, > oder =

12

23		32	89		98	45		54
45		62	81		18	43		43
41		41	62		26	67		71

Kreise die gesuchten Zahlen ein:

größer als 30	kleiner als 30	größer als 62
16 43 29	26 62 16	100 27 69
92	30	81
3 17	23 32	36 19
33 53 41	92 31 41	64 53 15

Stäbe und Klötzchen

Zeichne und schreibe die Zahl dazu

5

5 Z + 3 E	0 Z + 7 E	7 Z + 1 E	3 Z + 3 E	8 Z + 8 E
Zahl:	Zahl:	Zahl:	Zahl:	Zahl:
2 Z + 7 E	7 Z + 2 E	6 Z + 0 E	4 Z + 8 E	3 Z + 7 E
Zahl:	Zahl:	Zahl:	Zahl:	Zahl:

Ärger mit den Nachbarn

Wie heißen die Vorgänger und Nachfolger?

13



Der Zahlenstrahl

6

Verbinde die Ballons mit dem Zahlenstrahl!

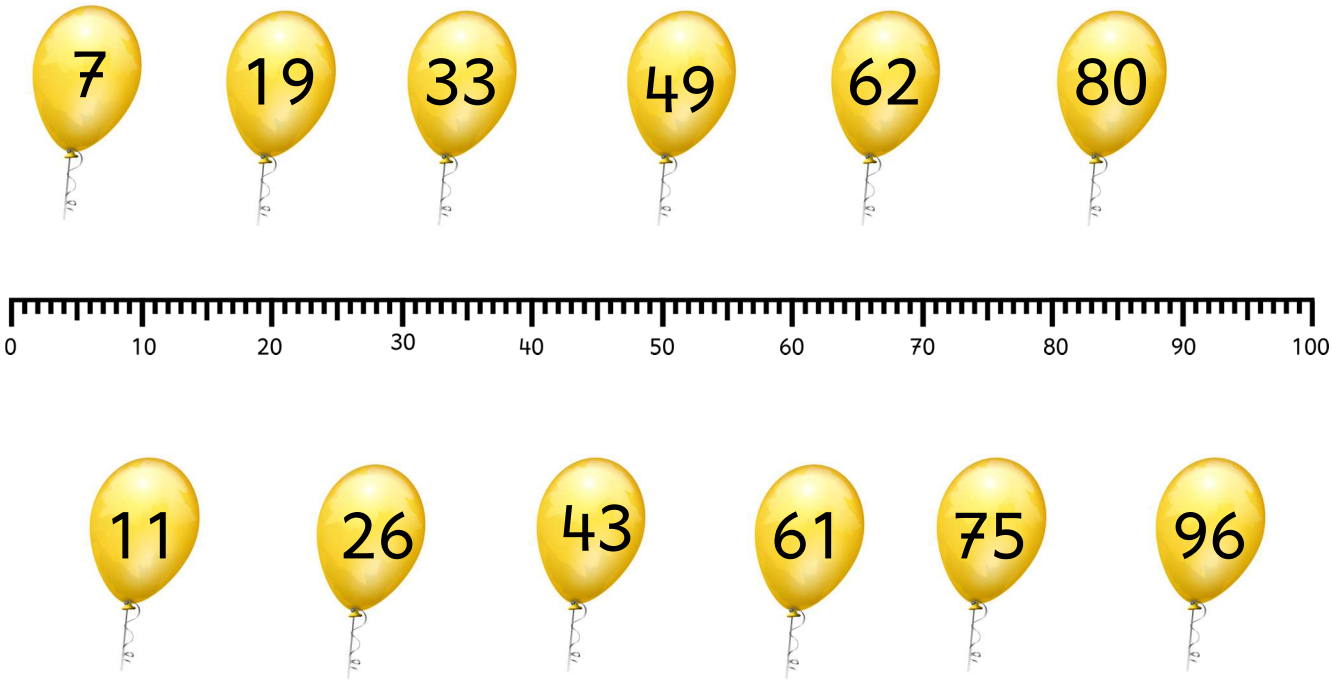

Ärger mit den Nachbarn

14

Wie heißen die Nachbarzehner (NZ)?



NZ	Zahl	NZ
	37	
	17	
	4	

NZ	Zahl	NZ
	24	
	84	
	65	

NZ	Zahl	NZ
	98	
	78	
	57	

Der Zahlenstrahl

Trage die Zahlen in die Ballons ein!



Puh!
Das war anstrengend.
Brauchst du jetzt eine Pause?
Es gibt von mir noch
viele weitere Hefte
mit tollen Aufgaben!
So wirst auch du zur
Mathe-Katze!
Deine Mia



OPEN EDUCATIONAL RESOURCES
Dieses Heft wurde von Florian Emrich erstellt
und auf www.zum-wiki.de unter cc-by-sa 4.0 veröffentlicht