

Mathe mit Mieze Mia

Mia parkt Autos ein – 1

Ein Heft von _____

Achtung: Falschparker!
Hier parkt ein Auto falsch.
Markiere auf jedem Parkplatz das falsche Auto rot!









Mia hat eine neue Aufgabe bekommen.
Sie soll Autos einparken.
Auf dem Parkplatz gibt es eine Regel:

Die Summe der Autos in jeder Reihe
muss der Zahl auf dem Schild entsprechen.

Das gilt für Reihen von links nach rechts,
aber auch für Reihen von oben nach unten.

Sogar für die Reihen, die schräg verlaufen.

Nebenan siehst du ein Beispiel!

Kannst du Mia bei der Aufgabe helfen?

8 + 1 + 6 = 15

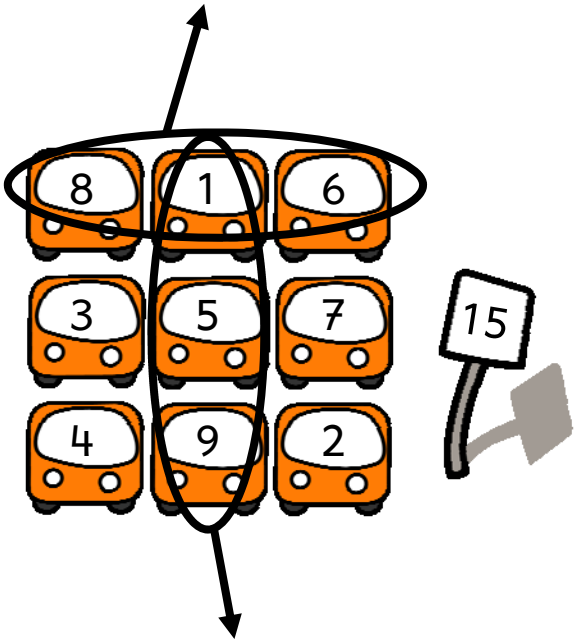

1 + 5 + 9 = 15

Die Autos sind schon da

Die Autos stehen bereit.
Nun parke sie noch ein!

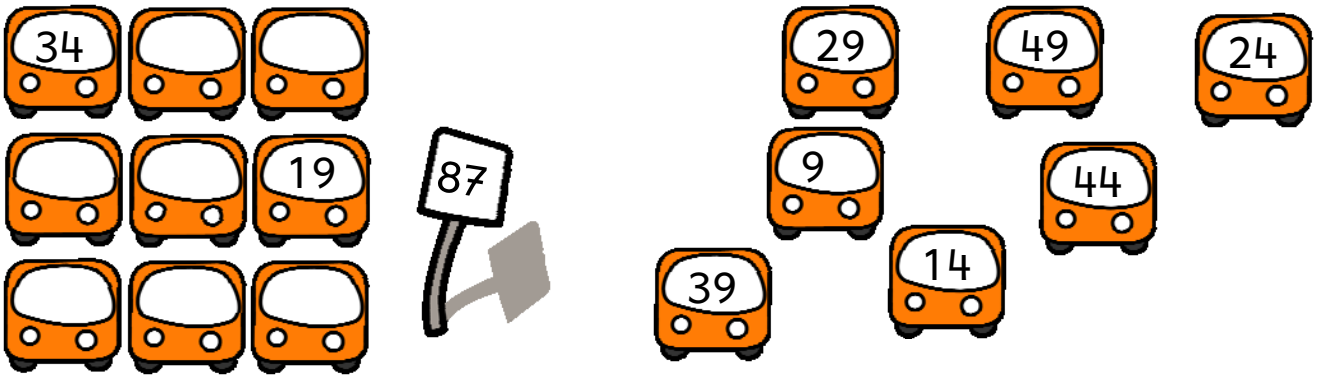

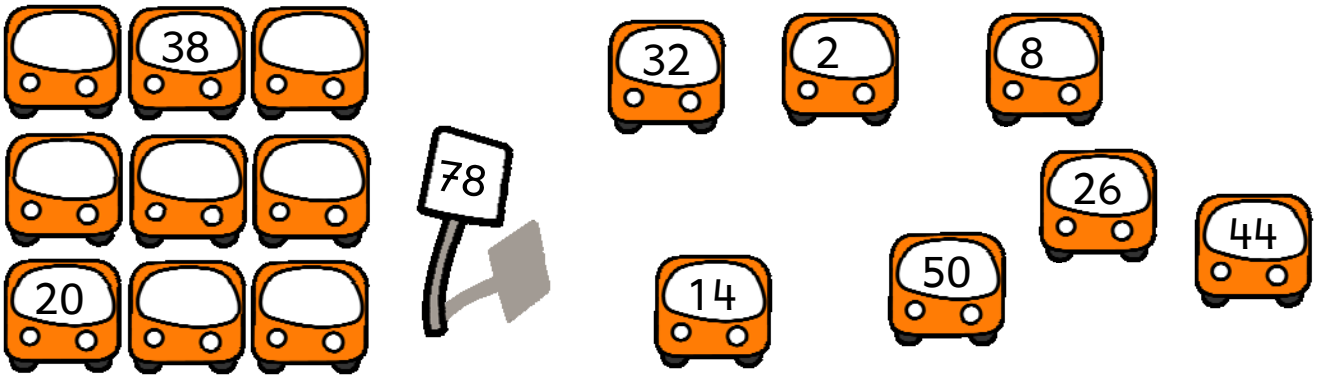

Wie lautet die Regel?

Diese Autos wurden schon geparkt.
Leider fehlt die Regel auf dem Schild. Kannst du sie ergänzen?

2









Die Autos sind schon da

Die Autos stehen bereit.
Nun parke sie noch ein!

8









Hier fehlen Autos

Noch nicht alle Autos sind eingeparkt.
Ergänze die fehlenden Autos!

3









Schwierige Parkplätze

Hier stehen erst drei Autos.
Kannst du es trotzdem lösen?

9









Kein Auto, kein Schild

Hier fehlen nicht nur noch Autos.
Auch das Schild fehlt noch. Finde erst heraus, was auf dem Schild stehen muss!

4









Parkplätze zum Knobeln

Hier stehen erst zwei Autos.
Findest du trotzdem eine Lösung?

10









Kein Auto, kein Schild

Hier fehlen nicht nur noch Autos.
Auch das Schild fehlt noch. Finde erst heraus, was auf dem Schild stehen muss!

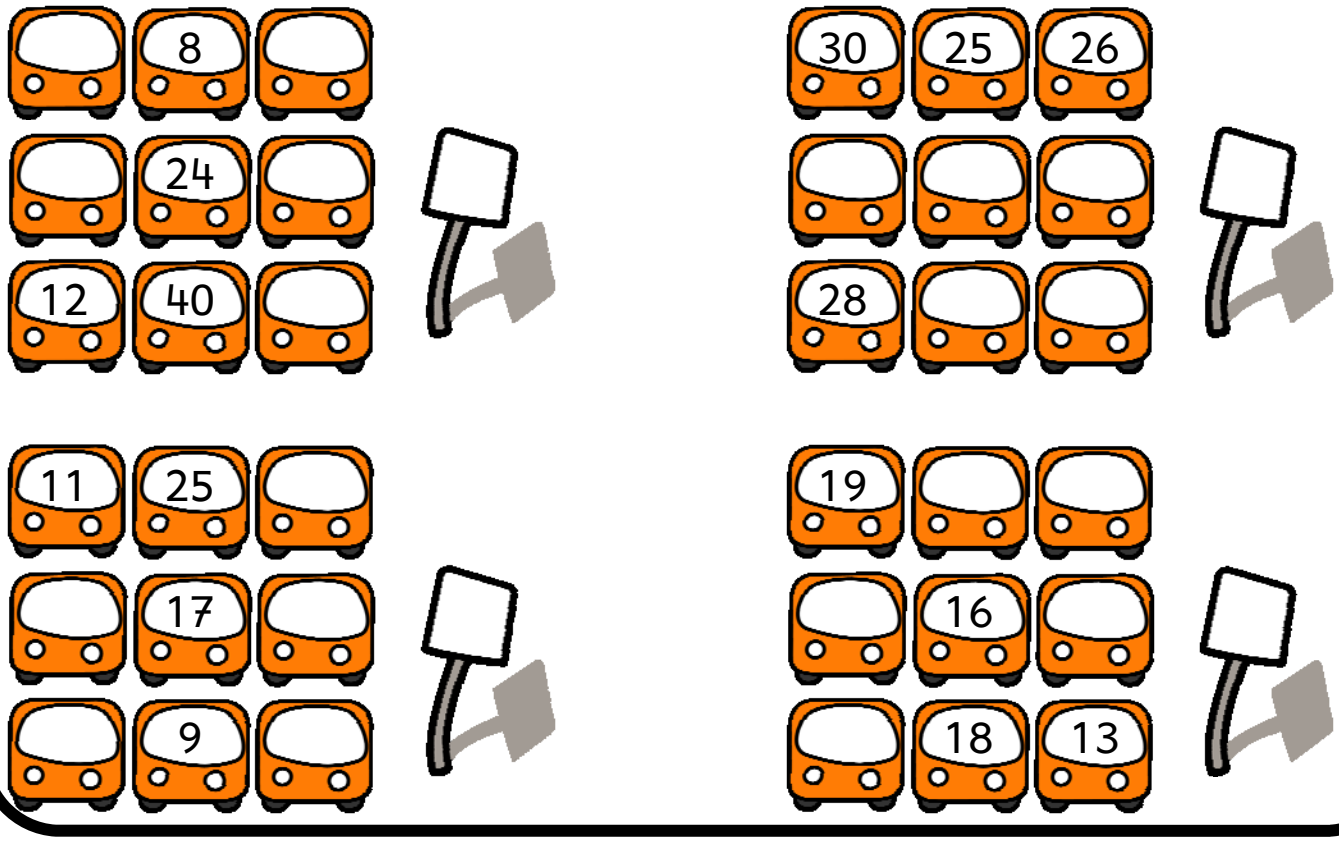

Puh!
Das war anstrengend.
Brauchst du jetzt eine Pause?
Es gibt von mir noch
viele weitere Hefte
mit tollen Aufgaben!
So wirst auch du zur
Mathe-Katze!
Deine Mia



OPEN EDUCATIONAL RESOURCES
Dieses Heft wurde von Florian Emrich erstellt und auf wiki.zum.de unter cc-by 4.0 veröffentlicht