

Mathe mit Mieze Mia

Mia rechnet Mal mit großen Zahlen

Ein Heft von _____

Gemischte Busse

Rechne diese Busse.
Prüfe am Ende mit den Einmaleins-Tabellen!

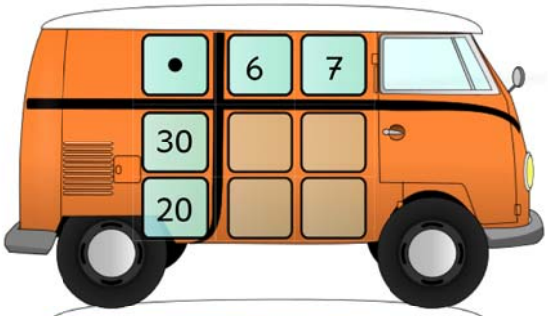

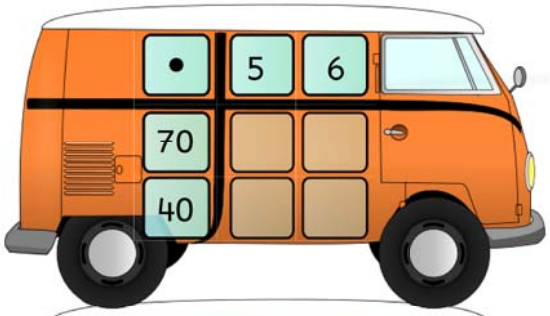

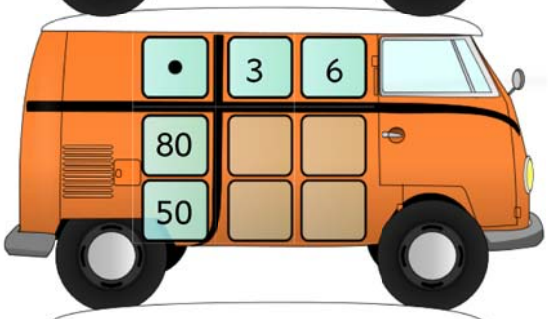

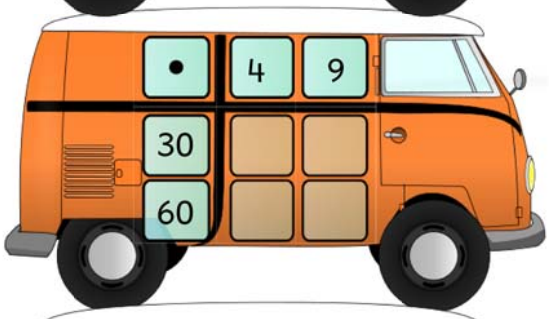

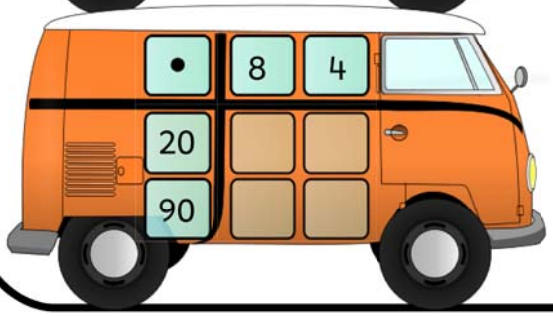

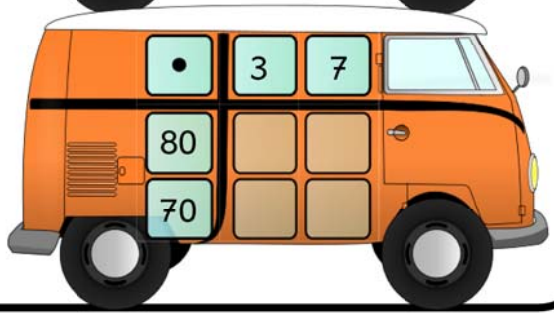

1 Plus und Mal

Schreibe zu jedem Bild eine Plus- und eine Mal-Aufgabe. Rechne aus!
Male auch zwei eigene Bilder.

60 + _____

_____

60 + _____

_____

50 + _____

_____

_____

_____

_____

_____

_____

_____

_____

_____

7 Erst klein, dann groß

Rechne stets beide Aufgaben.
Die kleinen Aufgaben helfen dir bei den großen Aufgaben!

Z	E		E		H	Z	E
	4	·	5	=			
4	0	·	5	=			

Z	E		E		H	Z	E
	6	·	7	=			
6	0	·	7	=			

Z	E		E		H	Z	E
	3	·	9	=			
3	0	·	9	=			

Z	E		E		H	Z	E
	9	·	8	=			
9	0	·	8	=			

Z	E		E		H	Z	E
	4	·	6	=			
4	0	·	6	=			

Z	E		E		H	Z	E
	3	·	4	=			
3	0	·	4	=			

Einmaleins mit 20 und 40

Fülle die Tabelle aus.
Rechne dann die Aufgaben.

2



1 · 20 =
2 · 20 =
3 · 20 =
4 · 20 =
5 · 20 =
6 · 20 =
7 · 20 =
8 · 20 =
9 · 20 =
10 · 20 =

1 · 40 =
2 · 40 =
3 · 40 =
4 · 40 =
5 · 40 =
6 · 40 =
7 · 40 =
8 · 40 =
9 · 40 =
10 · 40 =

Erst klein, dann groß

Rechne stets beide Aufgaben.
Die kleinen Aufgaben helfen dir bei den großen Aufgaben!

8

Z	E		E		H	Z	E
	7	·	8	=			
7	0	·	8	=			

Z	E		E		H	Z	E
	5	·	7	=			
5	0	·	7	=			

Z	E		E		H	Z	E
	3	·	8	=			
3	0	·	8	=			

Z	E		E		H	Z	E
	2	·	8	=			
2	0	·	8	=			

Z	E		E		H	Z	E
	4	·	7	=			
4	0	·	7	=			

Z	E		E		H	Z	E
	9	·	4	=			
9	0	·	4	=			

3 Einmaleins mit 30 und 60

Fülle die Tabelle aus.
Rechne dann die Aufgaben.



1 · 30 =	1 · 60 =
2 · 30 =	2 · 60 =
3 · 30 =	3 · 60 =
4 · 30 =	4 · 60 =
5 · 30 =	5 · 60 =
6 · 30 =	6 · 60 =
7 · 30 =	7 · 60 =
8 · 30 =	8 · 60 =
9 · 30 =	9 · 60 =
10 · 30 =	10 · 60 =

9 Setze fort

Setze die Aufgabenreihe fort.
Schreibe zwei weitere Aufgaben dazu!

30 · 5 =
30 · 6 =
30 · 7 =

60 · 2 =
70 · 2 =
80 · 2 =

80 · 8 =
70 · 7 =
60 · 6 =

30 · 2 =
40 · 3 =
50 · 4 =

80 · 2 =
70 · 3 =
60 · 4 =

30 · 7 =
40 · 6 =
50 · 5 =

Einmaleins mit 50 und 70

Fülle die Tabelle aus.
Rechne dann die Aufgaben.

4



1 · 50 =	1 · 70 =
2 · 50 =	2 · 70 =
3 · 50 =	3 · 70 =
4 · 50 =	4 · 70 =
5 · 50 =	5 · 70 =
6 · 50 =	6 · 70 =
7 · 50 =	7 · 70 =
8 · 50 =	8 · 70 =
9 · 50 =	9 · 70 =
10 · 50 =	10 · 70 =

Rechenmarathon

10

Bitte jemanden die Zeit für dich zu stoppen!
Wie schnell kannst du diese Aufgaben rechnen?

30 · 8 =	50 · 8 =	8 · 8 =
80 · 3 =	7 · 9 =	90 · 9 =
3 · 7 =	20 · 6 =	20 · 3 =
90 · 4 =	10 · 8 =	3 · 2 =
9 · 4 =	30 · 7 =	6 · 5 =
20 · 5 =	7 · 30 =	50 · 6 =
5 · 2 =	4 · 8 =	5 · 60 =
70 · 7 =	7 · 60 =	60 · 6 =
8 · 9 =	5 · 3 =	4 · 9 =
10 · 3 =	30 · 5 =	30 · 8 =

Ich habe es in _____ Minuten geschafft!!

5 Einmaleins mit 80 und 90

Fülle die Tabelle aus.
Rechne dann die Aufgaben.



1 · 80 = _____

2 · 80 = _____

3 · 80 = _____

4 · 80 = _____

5 · 80 = _____

6 · 80 = _____

7 · 80 = _____

8 · 80 = _____

9 · 80 = _____

10 · 80 = _____

1 · 90 = _____

2 · 90 = _____

3 · 90 = _____

4 · 90 = _____

5 · 90 = _____

6 · 90 = _____

7 · 90 = _____

8 · 90 = _____

9 · 90 = _____

10 · 90 = _____

Puh!
Das war anstrengend.
Brauchst du jetzt eine Pause?
Es gibt von mir noch
viele weitere Hefte
mit tollen Aufgaben!
So wirst auch du zur
Mathe-Katze!

Deine Mia



OPEN EDUCATIONAL RESOURCES

CC BY SA

Dieses Heft wurde von Florian Emrich erstellt und
auf wiki.zum.de unter cc-by 4.0 veröffentlicht